Wie löse ich S a c h a u f g a b e n, die ich nicht lösen kann? (Trick 4: Flussdiagramm!)

Name: _____ Datum: _____ Kl. ___ Fach: _____

Das ist eine Straße.
Was bleibt gleich?

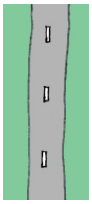

_____

Das ist ein Flusslauf.
Was ändert sich?



_____
_____
_____

Wie komme ich besser weg, bar bezahlen oder auf Raten zahlen?

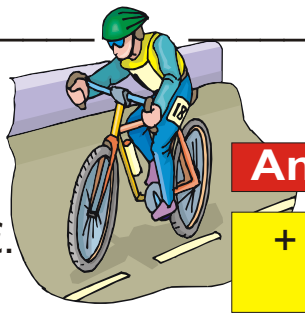

Der Preis für das Fahrrad ist bei Barzahlung 528 €. Es ist der Endpreis, er _____.

Anzahlung: 200 €

+ 12 Monatsraten zu je 30 €

Der Preis für das Fahrrad muss bei Ratenzahlung erst berechnet werden. Mit jeder Rate _____.

*Wie groß ist der Preisunterschied zwischen Barzahlung und **Teilzahlung** (= Zahlung in _____)?*

Da der Preis bei Ratenzahlung **wächst** - wie beim Fluss! - löse ich die Aufgabe mit einem _____.

_____ _____

_____ _____

Teilzahlungspreis: _____

Preis bei Barzahlung: _____

Vergleiche nun beide Preise!

Ich habe mit meinem/r Sohn/Tochter das Arbeitsblatt noch einmal besprochen. Er/sie versteht es jetzt: ja ☐ nein ☐

Unterschrift: _____

www.worksheets.de